Reto 1 MATEMÁTICAS

¿Cuántos cuadrados ves?

Cuenta los cuadrados de todos los tamaños.

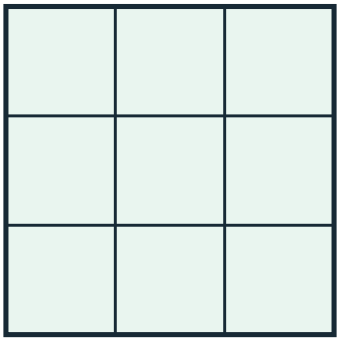

Reto 2 MATEMÁTICAS

¿Cuántos triángulos ves?

Cuenta también los que se forman al unir partes del dibujo.



Reto 3 MATEMÁTICAS

¿Cuántos palillos necesitas?

Construye 10 cuadrados en fila. Los que están juntos comparten un lado.



Reto 4 MATEMÁTICAS

¿Qué figura tiene más perímetro?

El lado de cada cuadradito mide 1 unidad.

A



B

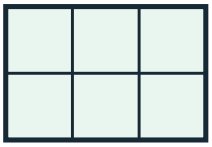

Reto 5 MATEMÁTICAS

¿Cuántos caminos hay?

Ve de salida a meta por las líneas. Muévete solo a la derecha o hacia abajo.

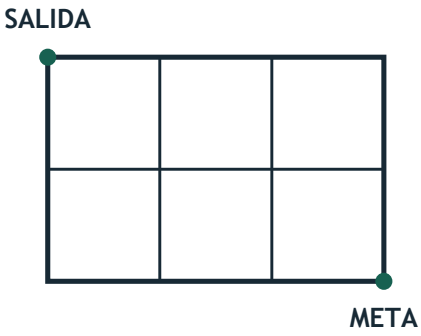

Reto 6 MATEMÁTICAS

¿Qué número va en el centro?

Usa los números del 1 al 5 sin repetir. La fila y la columna deben sumar 9.



Reto 7 MATEMÁTICAS

¿Cuál es el número secreto?

Une las tres pistas y encuentra el número.

Está entre 200 y 300.

La segunda cifra duplica la primera.

Sus cifras suman 14.

Reto 8 MATEMÁTICAS

¿Qué número sigue?

Fíjate en cuánto aumenta cada salto.

4	7	13	22	34	?

Reto 9 MATEMÁTICAS

¿Dónde se comió más chocolate?

Las dos tabletas son iguales. Lo sombreado es lo que ya se ha comido.

A



B



Reto 10 MATEMÁTICAS

¿Cuánto te devuelven?

Tienes 5 €. Compras dos lápices y una goma.

1 lápiz · 1,20 €

1 goma · 0,85 €

Reto 11 MATEMÁTICAS

¿A qué hora acaba?

El juego empieza por la mañana a la hora que marca el reloj. Dura 35 minutos.



Reto 12 MATEMÁTICAS

¿Dónde va el punto del otro lado?

Copia el dibujo y completa su reflejo. La línea de puntos es el eje.

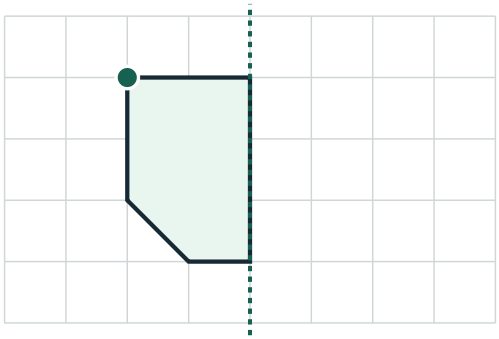

Reto 13 MATEMÁTICAS

¿Qué números faltan?

Completa las tres operaciones.

27 + ___ = 50

___ − 18 = 26

8 × ___ = 56

Reto 14 MATEMÁTICAS

¿Qué número se ha colado?

Busca el único que no aparece en la tabla del 6.

12 **18** **24** **29** **30** **36**

Reto 15 MATEMÁTICAS

¿Cuántos votos de ventaja?

¿Cuántos votos más recibió el plátano que la manzana?

Manzana ○ ○ ○

Pera ○ ○

Plátano ○ ○ ○ ○ ○

○ = 2 votos

Reto 16 MATEMÁTICAS

¿Qué bolsa elegirías?

Sacas una ficha al azar. ¿En qué bolsa es más fácil que salga negra?



Bolsa A



Bolsa B

Reto 17 MATEMÁTICAS

¿Puedes llegar a 24?

Usa cada número una sola vez. Puedes sumar, restar o multiplicar.

2	3	4

Reto 18 MATEMÁTICAS

¿Cuánto pesa la estrella?

Cada línea es una balanza en equilibrio. Los círculos pesan lo mismo.



Reto 19 MATEMÁTICAS

¿Qué igualdad hay que corregir?

Encuentra el error y escribe el resultado correcto.

- 6 × 7 = 42
- 9 × 4 = 36
- 8 × 6 = 46
- 7 × 5 = 35

Reto 20 MATEMÁTICAS

¿Cuánta agua queda?

Con el agua de la botella llenas los tres vasos.



Reto 1 LENGUA

¿Qué palabra se esconde?

Ordena las letras. La palabra nombra un objeto con páginas.

R O B I L

Reto 2 LENGUA

¿Qué vocales faltan?

Completa estas tres palabras del cielo.

L _ N _

N _ B _

_ S T R _ L L _

Reto 3 LENGUA

¿Qué animal forman las sílabas?

Usa las tres sílabas. Es un animal que lleva la casa a cuestas.

COL CA RA

Reto 4 LENGUA

¿Qué palabra rima con zapato?

Lee en voz alta y escucha cómo termina cada palabra.

GATO

MESA

ÁRBOL

Reto 5 LENGUA

¿Qué palabra une estas pistas?

Adivina el objeto.

Tiene dientes.

Pasa por el pelo.

Reto 6 LENGUA

¿Dónde va la tilde?

Escribe estas tres palabras con su tilde.

ARBOL

LAPIZ

CANCION

Reto 7 LENGUA

¿Qué sílaba suena más fuerte?

Pronuncia las palabras y señala la sílaba tónica de cada una.

ma · ri · po · sa

te · lé · fo · no

pa · pel

Reto 8 LENGUA

¿Van con B o con V?

Completa cada palabra. Las pistas están al lado.

_ACA · Da leche

_ARCO · Navega

_ENTANA · Deja pasar la luz

Reto 9 LENGUA

¿Cuál se cuela en esta familia?

Elige la palabra que no pertenece a la familia de pintar.

PINTAR

PINTURA

PINTOR

PINO

Reto 10 LENGUA

¿Cómo pasas de GATO a PALO?

Cambia solo una letra en cada salto. En medio debe quedar otro animal.

GATO → ____ → PALO

Reto 11 LENGUA

¿Dónde van los espacios?

Separa las palabras para que se pueda leer la frase.

MIPERRODUERMEALSOL

Reto 12 LENGUA

¿Quién hace ese sonido?

Une cada animal con su verbo.

La abeja	**croa**
El caballo	**zumba**
La rana	**relincha**

Reto 13 LENGUA

¿Cómo ordenarías la frase?

Usa todos los trozos y empieza por Alba.

en | las llaves | Alba

la mochila | guardó

Reto 14 LENGUA

¿Qué animal se ha colado?

Está escondido dentro de una palabra de la frase.

El pirata dejó el mapa.

Reto 15 LENGUA

¿Qué palabra tiene dos sentidos?

Encuentra una sola palabra para las dos pistas.

En uno puedes sentarte.

En el otro puedes guardar dinero.

Reto 16 LENGUA

¿Qué palabra dice lo contrario?

Forma tres parejas de contrarios.

ancho

alto

lleno

bajo

vacío

estrecho

Reto 17 LENGUA

¿Dónde pondrías la coma?

Pon una coma para que se entienda que invitas a la abuela a comer.

Vamos a comer abuela.

Reto 18 LENGUA

¿Qué signos faltan?

Pon los signos de apertura y cierre de cada frase.

__ Qué sorpresa __

__ Dónde está mi estuche __

Reto 19 LENGUA

¿Qué palabra va primero?

Ordena las tres palabras como en el diccionario.

ABETO

ABRAZO

ABEJA

Reto 20 LENGUA

¿Qué pasa si añades DES-?

Añade DES- delante de cada palabra y explica qué significa una de las nuevas.

HACER

ORDEN

ATAR

Reto 1 LÓGICA

¿Qué números faltan?

Completa con 1, 2, 3 y 4 sin repetir en ninguna fila, columna ni bloque de 2 × 2.

1			4
	4	1	
2		4	
	3		1

Reto 2 LÓGICA

¿Qué figura sigue?

Mira qué grupo de figuras se repite.



Reto 3 LÓGICA

¿Qué torre queda en medio?

Ordena A, B y C de la más baja a la más alta.

C es más alta que A.

B es más baja que A.

Reto 4 LÓGICA

¿Quién llegó primero?

Ordena las cuatro llegadas. No hubo empates.

Alma llegó antes que Bruno.

Carla llegó después de Bruno.

Diego llegó antes que Alma.

Reto 5 LÓGICA

¿Hacia dónde apunta la siguiente?

Fíjate en cómo gira cada flecha.



Reto 6 LÓGICA

¿En qué casilla acaba la ruta?

Desde la salida avanza 2 a la derecha, 1 abajo y 1 a la izquierda.

S		A	
	B		C
		D	

S = salida

Reto 7 LÓGICA

¿Qué cable llega a B?

Sigue el cable sin saltar de una línea a otra.

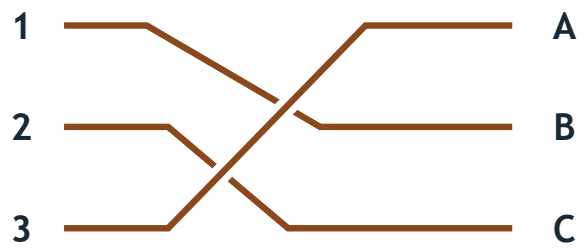

Reto 8 LÓGICA

¿Qué figura falta?

Mira qué cambia al pasar de la izquierda a la derecha.



Reto 9 LÓGICA

¿Dónde está la ficha?

Está en A, B o C. Solo una de estas personas dice la verdad.

Ana: «Está en A o en B».

Leo: «No está en B».

Eva: «Está en C».

Reto 10 LÓGICA

¿Qué objeto sobra?

Tres sirven para medir. Encuentra el que sobra.

RELOJ · REGLA

TERMÓMETRO · LÁPIZ

Reto 11 LÓGICA

¿Qué palabra dice el código?

Cambia cada número por su letra.

3	2	4	1

1 = A 2 = E 3 = M 4 = T

Reto 12 LÓGICA

¿Qué piezas forman el dibujo?

Elige dos piezas que puedas unir para rellenar la casilla grande. Puedes girarlas.

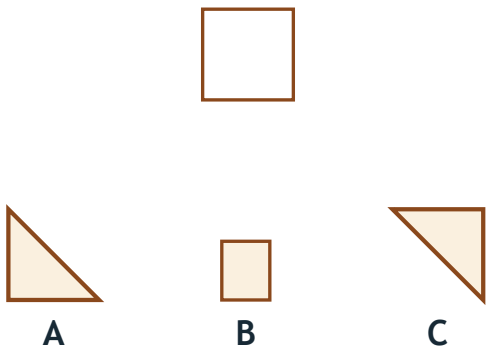

Reto 13 LÓGICA

¿Puedes arreglarlo con un palillo?

Mueve un solo palillo de un número para que la igualdad sea correcta.



Reto 14 LÓGICA

¿Por dónde empezarías?

Recorre todas las líneas una sola vez sin levantar el lápiz. ¿En qué puntos puedes empezar?

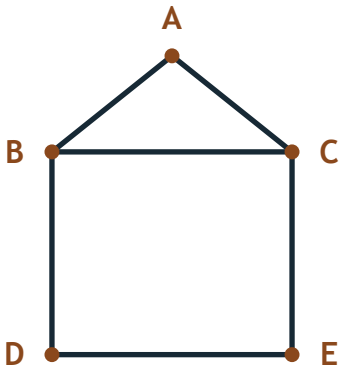

Reto 15 LÓGICA

¿Qué cara queda enfrente de B?

Imagina que doblas esta plantilla para hacer un cubo.

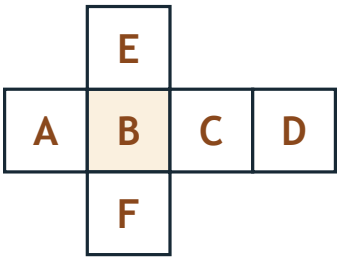

Reto 16 LÓGICA

¿En qué orden va la carta?

Ordena los cuatro pasos para preparar una carta para enviar.

- Cerrar el sobre.
- Doblar la carta.
- Meter la carta en el sobre.
- Escribir la carta.

Reto 17 LÓGICA

¿Cómo es la siguiente ficha?

Fíjate en el número de cada lado.

1	4	2	3	3	2	?	?

Reto 18 LÓGICA

¿Quién tiene cada cosa?

Ian, Ada y Luz tienen un objeto cada uno: libro, regla y lápiz.

Luz tiene el libro.

Ian no tiene el lápiz.

Reto 19 LÓGICA

¿Cuántos cortes hacen falta?

Divide una hoja extendida en 5 tiras. Haz cortes paralelos de borde a borde.

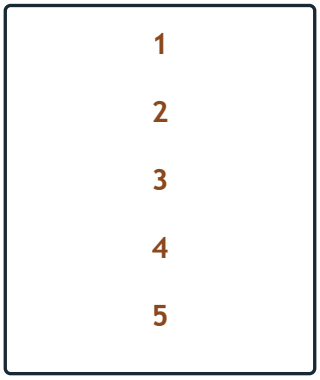

Reto 20 LÓGICA

¿En qué orden van las figuras?

Una figura por casilla. Sigue las tres pistas.

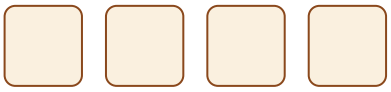

☆ va primero.

△ va justo después del círculo.

□ va al final.